HOME OFFICE

Klasse 3c



Hallo!

Wichtige Informationen für dich!

Bitte Dienstag mitbringen:

Für Deutsch:

- ☐ Zebraheft
- ☐ Deutsch – Arbeitsheft

Für Mathe:

- ☐ blaue Mappe mit den AB von letzter Woche (möchte ich einsammeln)
- ☐ Matheheft
- ☐ lila Flex & Flo
- ☐ Trainingsheft

Bleibt gesund und haltet gut zusammen!

Alles Gute und liebe Grüße

Frau Klein und Frau Volkmar

Diese Woche habe ich ein Kinderlied rausgesucht, was du vielleicht schon kennst.

Höre es dir mal an und überlege was es uns Wichtiges sagen will!

Das eine Kind ist so, das and‘re Kind ist so

Deutsch:

1. Bring am Dienstag bitte dein Zebra – Heft mit, ich möchte es einsammeln. Außerdem auch dein Deutsch – AH.

2. Du bekommst dann deine Lernwörterkontrolle zurück und auch (nochmal) einen Plan für deine Verbesserung.
Deine Fehler sollst du dann so in deinem Heft verbessern, wie es dir der Plan zu verschiedenen Fehlern sagt.

   Falsche Wörter steckst du bitte wieder ins 1.Fach deiner Lernbox.

3. Dann fangen wir jetzt das Thema Orte – nah und fern im AH an. Lies dazu die Kinderberichte auf S. 106 und 107 und bearbeite Nr.2 in deinem Heft.

Lese - Knobelecke

Hier sind noch einmal Aufgaben zum Lesen und Knobeln für dich!

Lies genau und benutzte am besten einen Bleistift, falls du doch nochmal etwas ändern musst.

Zur Erinnerung:

Die Tiere oben rechts zeigen dir die Schwierigkeit:

Papagei: leicht

Känguru: etwas schwieriger

Löwe: schwierig

Du kannst anfangen wo du möchtest und natürlich auch alle bearbeiten!

Viel Spaß!

Die Lösungen gibt es nächste Woche!

Lösungen zur Woche vom 01. - 03.06.

Astrid Lindgren – Lösung

	Buch 1	Buch 2	Buch 3
Titel	Lotta zieht um	Kalle Blomquist	Ronja Räubertochter
Name einer Buchfigur	Frau Berg	Anders Bengtsson	Undis
Seitenzahl	63	445	236

Lösungsantwort: Lotta zieht um
Möglicher Lösungsweg: 3 – 4 – 2 – 5 – 1

Cornelia Funke – Lösung

	Buch 1	Buch 2	Buch 3	Buch 4
Titel	Das Piraten-schwein	Emma und der blaue Dschinn	Igraine Ohnefurcht	Potilla
Name einer handelnden Person	Pit	Karim	Gilgalad	Doppling
Name des Kindes	Tina	Lucia	Sebastian	Gerhard
Besonderheit	Jemand isst Strandwürmer.	Ein Hund findet eine Flasche am Strand.	Burg Bibernell hat steinerne Löwen.	Jemand ist so groß wie eine Limonaden-flasche.

Lösungsantwort: Emma und der blaue Dschinn
Möglicher Lösungsweg: 5/8/11 – 3 – 6 – 10 – 9 – 7 – 1 – 4 – 2

Kinderbuchautoren – Lösung

	Autor/Autorin 1	Autor/Autorin 2	Autor/Autorin 3	Autor/Autorin 4
Name	Kirsten Boie	Otfried Preußler	Gudrun Mebs	Paul Maar
Geburtsjahr	1950	1923	1944	1937
Geburtsort	Hamburg	Reichenberg	Bad Mergentheim	Schweinfurt
Werk	Paule ist ein Glücksgriff	Brot für Myra	„Oma!“ schreit der Frieder	Die vergessene Tür

Lösungsantwort: Gudrun Mebs
Möglicher Lösungsweg: 2/4/9 – 5 – 7/8 – 11– 12 – 1 – 6 – 3 – 10

Im Museum

11

Die Sommerferien nahen! Das ist ein guter Zeitpunkt, um einen Klassenausflug zu unternehmen. Heute fahren drei Klassen ins Museum. Dort gibt es viel zu sehen und zu bestaunen.

	Museum 1	Museum 2	Museum 3
Name			
Klasse			
Heimatstadt			
Thema der Führung			

1. Die Klasse 6d aus Köln bekommt eine Führung zum Thema „Grenzen der Leistung".
2. Die Klasse aus Berlin findest du hier nicht neben der Gruppe, die durch das Deutsche Museum in München spaziert.
3. In einem Museum lernen die Schüler verschiedene Druckverfahren wie Hoch- und Siebdruck kennen.
4. Die 4b erfährt im Zucker-Museum interessante Dinge über die Verarbeitung der Zuckerrübe zum Haushaltszucker.
5. Ganz links außen findest du die Klasse 3c aus München.

› Welche Klasse besucht das Deutsche Sport & Olympia Museum?

_____



Caroline Finster-Setzler/Bernd Riemke: Neue Logicals für Kinder
© Auer Verlag

Künstler des Blauen Reiters

11

Gemeinsam mit dem deutschen Künstler Franz Marc gründete der Russe Wassily Kandinsky 1911 in München die Künstlergruppe „Der Blaue Reiter“. Die beiden wollten der bisherigen Malerei neuen Ausdruck verleihen. Viele Künstlerinnen und Künstler schlossen sich an und wollten es ihnen gleichtun. Hier geht es um vier Mitglieder der Gruppe und um jeweils eines ihrer Gemälde. Kannst du die Informationen richtig zuordnen?

	Künstler/ Künstlerin 1	Künstler/ Künstlerin 2	Künstler/ Künstlerin 3	Künstler/ Künstlerin 4
Name				
Geburtsjahr				
Gemälde				
Ausstellungsort				

1. Das Kunstwerk, das in München in der Pinakothek der Moderne ausgestellt ist, hat hier zwei Nachbarn.
2. Der Künstler, der das berühmte Bild „Hutladen“ malte, hat hier nur einen (ebenfalls männlichen) Nachbarn. Dieser ist Russe.
3. August Macke ist nur zehn Jahre jünger als seine weibliche Kollegin.
4. Lena sagt staunt: „Ich wusste gar nicht, dass der Russe Wassily Kandinsky in Gabriele Münter verliebt war.“
5. „Gelber Tiger“ wurde weder von August Macke noch von Wassily Kandinsky gemalt.
6. Zwischen dem Künstler, der 1880 in München geboren wurde, und Wassily Kandinsky befindet sich hier das Kunstwerk, welches in Hagen im Osthaus-Museum ausgestellt ist.
7. Im Museum Folkwang in Essen hängt eines der vier Gemälde. Es ist weder „Gelber Tiger“ noch „Träumerische Improvisation“.
8. Die 1877 geborene Frau gestaltete das Gemälde „Landschaft mit weißer Mauer“.
9. Das Gemälde von Gabriele Münter, einer der wenigen Frauen in der Künstlergruppe, befindet sich hier an zweiter Stelle.
10. Im Museum Städtische Galerie im Lenbachhaus in München kannst du das Werk des deutschen Mitbegründers des Blauen Reiters bestaunen.

› Welches der vier Mitglieder wurde 1866 geboren?

_____

Caroline Finster-Setzler/Bernd Riemke: Neue Logicals für Kinder
© Auer Verlag

Alte Meister

„Was machen denn die vielen Menschen da auf dem Bild?“, fragt Julius seinen Vater neugierig, als sie im Museum an einem Gemälde vorbeikommen. Gespannt lauscht er der Entstehungsgeschichte des Bildes, die sein Vater erzählt. Im Museumsladen kauft Julius Postkarten mit Bildern von vier berühmten alten Meistern.

	Postkarte 1	Postkarte 2	Postkarte 3	Postkarte 4
Name des Künstlers				
Bild				
Entstehungsjahr				
Ausstellungsort/ Museum				

1. In der Albertina in Wien kannst du ein Bild bestaunen, das um 1508 mit einem Pinsel auf blau grundiertem Papier gezeichnet wurde.
2. „Der Heuwagen“ hängt in Madrid im Prado.
3. Am besten gefällt Julius die Postkarte, auf der die Zeichnung „Betende Hände“ zu sehen ist. Sie stammt von dem Nürnberger Maler Albrecht Dürer.
4. Die beiden ältesten Bilder liegen hier nicht nebeneinander.
5. Das Gemälde, das du hier ganz rechts außen findest, wurde um 1503 geschaffen.
6. Die Postkarte mit der „Geburt der Venus“ von Sandro Botticelli legt Julian neben die Postkarte mit dem Bild, das um 1503 gemalt wurde.
7. Das bekannte Gemälde von Leonardo da Vinci ist im Louvre in Paris ausgestellt.
8. Das Bild, das Hieronymus Bosch gemalt hat, entstand um 1490. Rechts neben ihm findest du hier eines, das im Original in Wien in der Albertina ausgestellt ist.
9. Das Kunstwerk, das um 1485 gefertigt wurde, hat hier zwei Nachbarn.
10. Eines der vier Bilder kannst du in Florenz in den Uffizien sehen.

› Zu welcher Zeit wurde die Mona Lisa gemalt, die auf einer der Postkarten abgebildet ist?

_____

Caroline Finster-Setzler/Bernd Riemke: Neue Logicals für Kinder
© Auer Verlag

Mathe:

In dieser kurzen Woche wollen wir noch einmal das *Sachrechnen* üben!

Du weißt ja, wie wichtig das ist.

Letzte Woche haben wir auch schon damit angefangen.

Bring am Dienstag bitte alle AB mit, damit ich sie mir anschauen kann.

Diese Hinweise können dir nochmal helfen!!

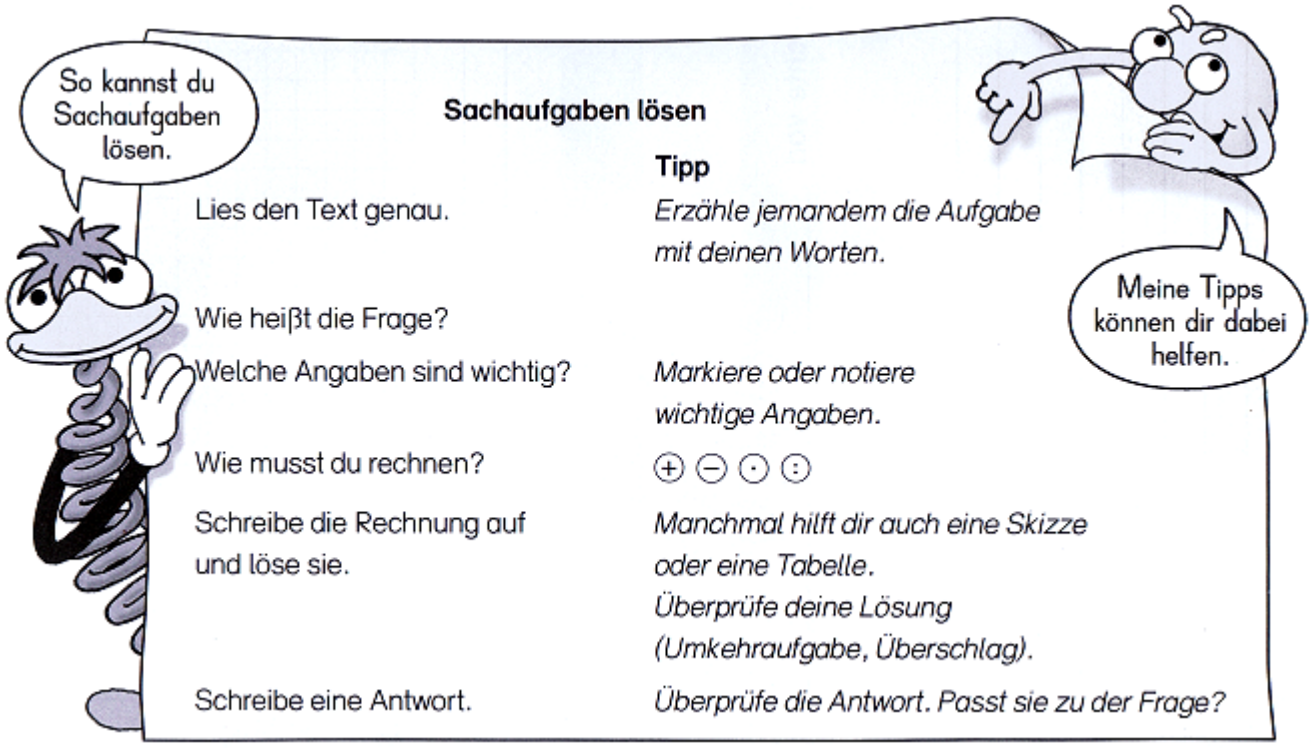

Ein paar Tipps, damit du dich wieder erinnerst:

1m = 100cm

1€ = 100ct

1h (Stunde) = 60min

Du kannst diese Vorlage nutzen, wenn im Flex & Flo oder auf deinem AB nicht genügend Platz ist. Hier kannst du alles noch einmal schön aufschreiben. Wenn du lieber in dein Matheheft schreiben möchtest, ist das auch in Ordnung.

Aufgabe: S.____ Nr.____ oder AB_____ Nr._____

Frage: _____

_____

Rechnung:

Antwort: _____

_____

Aufgabe: S.____ Nr.____ oder AB_____ Nr._____

Frage: _____

_____

Rechnung:

Antwort: _____

_____

Hiermit fängst du an:

Lila Flex & Flo:

S.56 - In den Bergen -

Nr. 1 ☐

Nr. 2 ☐

Nr. 3 ☐

Nr. 4 ☐

S.57 - Auf Fahrradtour -

(Bitte immer F, R und A auf die Vorlage oder ins Heft!)

Nr. 1 ☐

Nr. 2 ☐

Nr. 3 ☐

Nr. 4 ☐

Nr. 5 ☐

Nr. 6 ☐

Nr. 7 ☐

Die ganze Seite gehört zusammen!
Vielleicht brauchst du manchmal Informationen oder Ergebnisse aus einer anderen Aufgabe oder musst noch einmal oben nachlesen.

Suche dir immer eine Frage aus, die du mit einer Rechnung beantworten kannst!

Arbeitsblatt: S 23 ☐

Wenn du oben fertig bist:

Arbeitsblätter:

S 22

Du musst hier auf keinen Fall alles machen!

Such dir aus, worauf du Lust hast!

Sachunterricht

	Am Dienstag wollen wir ein neues Thema anfangen Bienen. Dafür bekommst du ein Heft mit vielen Informationen ausgeliehen. Bitte geh sorgfältig mit dem Heft um, ich möchte es in der letzten Schulwoche wieder einsammeln! In dem Heft liegen die AB, die du dazu bearbeiten sollst. Dafür hast du bis zum 23.6., also 2 Wochen, Zeit. Wenn du jede Woche 2/3 AB machst, schaffst du das gut.
!	*Hier sind jetzt die Arbeitsaufträge:* gelbes Blatt: als Deckblatt für deine Bienenarbeit gestalten AB 11: Lies den Text. Trage die Namen der Körperteile an der richtigen Stelle ein. (Schau auch mal das große Foto im Heft auf S.4 an. AB 13: Lies den Text. Schneide die 4 Bilder aus und Klebe sie in der passenden Reihenfolge auf die Rückseite. AB 15: Hier sollst du 4 Berufe beschreiben, die eine Biene in ihrem Leben ausübt. Dazu helfen dir gut die Seiten 8 und 9 im Heft. Wenn du die Bilder auf dem AB genau ansiehst, kann st du erkennen, welcher ihrer Berufe gemeint ist. AB 17: Schreibe, was in einem Bienenstock passiert. Die Wörter unten kannst du benutzen. AB 20: Zu dieser Aufgabe helfen dir natürlich die Wörter, die über der Tabelle stehen, aber auch die S.6 und 7 im Bienenheft AB 18: Dies ist ein Gedicht von Josef Guggenmos. Dieser Dichter hat viele lustige Gedichte geschrieben, aber auch viele, mit denen er den Lesern etwas sagen will. Was meint er wohl, wenn er genau vorrechnet, dass der Preis von einem Glas Honig nach Arbeitsstunden ausgerechnet wird und deshalb 27.000 Mark kostet? (Mark hieß früher der Teil unseres Geldes, der heute Euro heißt.) Schreibe deine Gedanken in dein Schreibheft.
★	1.) Lerne das Gedicht auswendig. 2.) Blättere noch weitere Seiten in dem Bienenheft durch. Darin stehen viele interessante Sachen. Z.B., dass wir von den Bienen noch mehr bekommen als nur den Honig. Und warum Bienen für uns so wichtig sind, wir sie schützen müssen und wie wir ihnen helfen können. (Vielleicht tust du das schon? Dann erzähle nächste Woche mal davon!)

• Sachrechnen – Urlaub

Trage die geplanten Kosten in die Tabelle ein. Zwischenrechnung auf einem Blatt Papier.

1 Familie Stein will in den Ferien auf die Insel Föhr. Die Ferienwohnung kostet 70 € pro Tag. Sie mieten die Wohnung für 7 Tage.

2 Die Fähre kostet für das Auto 80 €.

3 Auf der Insel wollen sie für die 7 Tage einen Strandkorb mieten. Der Strandkorb kostet 42,70 €. Wie teuer ist der Strandkorb pro Tag?

Preis pro Tag: _____

4 Frau Stein schlägt vor, für 3 Tage Fahrräder zu mieten. Fahrräder für Kinder kosten 3,50 € pro Tag, für Erwachsene 3,75 €.
Wie hoch ist der Gesamtpreis?

5 Für das Essen und Trinken plant Frau Stein 25 € pro Tag ein. Herr Stein: „Für Eis und andere Kleinigkeiten sollten wir vielleicht 70 € zusätzlich einplanen."

6 Die beiden Kinder bekommen jeder 17,50 € Taschengeld.

Ausgaben
Wohnung
Fähre
Strandkorb
Fahrräder
Essen/Trinken
Kleinigkeiten
Taschengeld
Eintritt
Kurtaxe
Benzin
Insgesamt

7

Schifffahrtsmuseum	
Erwachsene	2,75 €
Kinder	1,50 €
Kurtaxe pro Tag und Person	1,00 €

8 Für die Fahrt mit dem Auto rechnet Herr Stein mit ungefähr 80 l Benzin. Ein Liter Benzin kostet 1,40 €.

• Sachrechnen – Schwere Sachaufgaben

1 Herr Schubert geht mit seinem Sohn Max zum Fußball. Sie müssen zusammen 24 € bezahlen. Herr Meister nimmt seine beiden Kinder Lene und Fritz mit. Er bezahlt 32 €. Wie teuer ist der Eintritt für Erwachsene, wie teuer für Kinder?

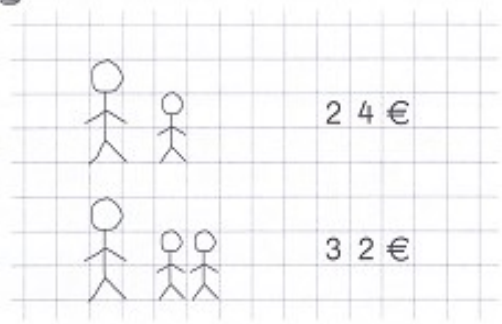

R: _____

A: _____

2 Familie Berger (Vater, Mutter, Max und Pia) gehen in den Freizeitpark. Der Eintritt kostet 32 €. Frau Peters geht mit den beiden Mädchen Mia und Leonie und bezahlt 23 €. Wie teuer ist der Eintritt für Erwachsene, wie teuer für Kinder?

R: _____

A: _____

3 Herr Lehmann kauft ein Roggenbrot und sechs Mohnbrötchen. Er muss 5 € bezahlen. Frau Platow kauft nur drei Mohnbrötchen und ein Roggenbrot. Sie bezahlt 3,80 €. Wie teuer ist ein Roggenbrot, wie teuer ein Mohnbrötchen?

R: _____

A: _____

4 Frau Beier kauft zwei Apfelsinen und zwei Äpfel, zusammen wiegt das Obst 720 g. Herr Paulsen kauft vier Äpfel und zwei Apfelsinen von der gleichen Sorte. Sein Obst wiegt zusammen 1000 g. Wie schwer ist ein Apfel, wie schwer ist eine Apfelsine?

R: _____

A: _____